TÝDENNÍ ÚKOL č. 26	MATEMATIKA 6. ročník Učivo: rozdělení úhlů, osa úhlu, úhly vrcholové, vedlejší, grafické sčítání a odčítání úhlů, násobení
Termín odevzdání: 30. 4. 2021	
Jméno:	Body: Hodnocení:

1. Ke každému úhlu napiš jeho název:

65°
125°
90°
225°
180°
101°
2°

2. Sestroj úhel β = 105°. Sestroj jeho osu.

3. Urči velikost úhlů vyznačených na obrázku:

a)

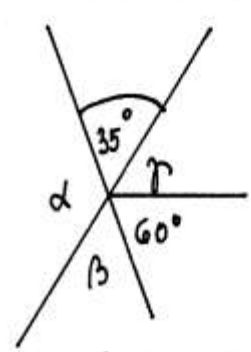

α = β = γ =

b)

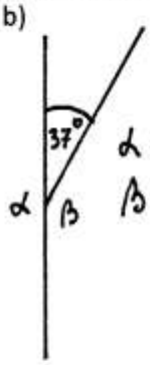

α =
β =

c)

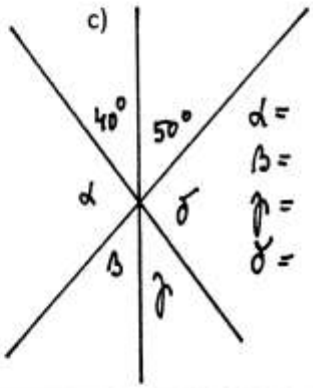

α =
β =
γ =
δ =

d)

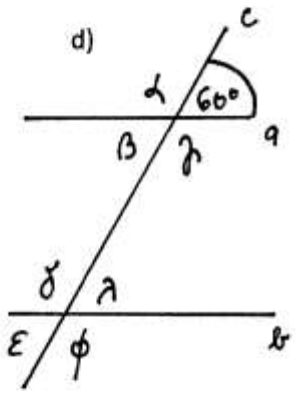

4. Sestroj úhel α = 72° a β = 35°. Graficky sestroj a vyznač výsledný úhel:

α β

ε = α+β δ = α-β γ = 2.β